CORNÉLIO PROCÓPIO

18 DE JANEIRO DE 1938

PREFEITURA

PROCESSO SELETIVO SIMPLIFICADO (PSS) 2018

SECRETARIA MUNICIPAL DE SAÚDE DE CORNÉLIO PROCÓPIO

Cargo: TÉCNICO DE ENFERMAGEM

Duração da prova: 03 (três) horas, incluído o tempo para o preenchimento do cartão-resposta.

OBSERVAÇÃO: Você poderá entregar o caderno de provas e o cartão-resposta somente depois de decorrido o tempo de 1 hora de prova.

Orientações:

Escreva nesta capa de prova seu CPF ou RG e assine-o no espaço apropriado COM LETRA MAIÚSCULA e legível;

Confira se este caderno de provas corresponde ao Cargo para o qual se inscreveu;

Verifique se a sequência de questões, no total de 25, está correta, ou se há imperfeições gráficas que possam causar dúvidas;

Não é permitido o porte ou uso de equipamentos tais como: relógio, telefone celular, calculadora, pager, etc. (mesmo que inoperantes dentro da sala de aula);

Para cada questão objetiva são apresentadas 5 (cinco) alternativas de respostas (A, B, C, D, E). Apenas uma delas constitui a resposta correta em relação ao enunciado da questão;

Preencha o gabarito corretamente assinalando o quadro correspondente a letra da alternativa correta de cada questão no cartão resposta utilizando caneta esferográfica de tinta azul ou preta, no caso de rasura ou assinalar mais de uma alternativa, a questão será anulada.

A interpretação das questões é parte integrante da prova. Não será permitida a consulta aos fiscais e nem tão pouco a quaisquer formas fraudulentas;

Não é permitido qualquer tipo de consulta durante a realização da prova;

Caso necessite se ausentar da sala de prova antes do término desta, ou com duração mínima de 60 minutos, solicite do fiscal de sala o devido acompanhamento de um fiscal de volante;

Todas as provas estarão lacradas e só serão entregues aos fiscais 15 minutos antes do início de sua realização.

Comunique imediatamente aos fiscais ou à coordenação local qualquer irregularidade. Ao terminar, entregue ao fiscal o caderno de provas e o cartão resposta devidamente preenchido e assinado no campo apropriado. Não será permitido que o candidato leve o caderno de provas. Se desejar, utilize o canhoto abaixo, a fim de anotar suas respostas para posterior conferência.

Nº. do CPF ou do RG para identificação:

Assinatura do(a) candidato(a) COM LETRA MAIÚSCULA:

Destaque este canhoto. Ele é destinado exclusivamente para sua conferência

1	2	3	4	5	6	7	8	9	10	11	12	13	14	15	16	17	18	19	20	21	22	23	24	25

TÉCNICO EM ENFERMAGEM:

01. Entre outros aspectos, uma gestante deve ser orientada que, no que diz respeito à

(A) atividade física, na ausência de contraindicações, as atividades devem ter intensidade leve a moderada por, pelo menos, 30 minutos.
(B) alimentação, não existem restrições quanto ao tipo e quantidade diária no uso de adoçantes artificiais.
(C) atividade sexual, as relações sexuais estão contraindicadas a partir da 32.ª semana de idade gestacional.
(D) segurança no trânsito, o cinto de segurança deve ser utilizado durante toda a gestação, devendo ser posicionado sobre o útero gravídico. (E) alimentação, não existem restrições quanto ao consumo de alimentos crus.
(E) Nenhuma das alternativas.

02. Dentre todas as situações que caracterizam risco de morte iminente, nenhuma emergência supera a prioridade do atendimento da parada cardiorrespiratória, que pode ser comprovada

(A) pela ausência de pulso central (radial, pedioso).
(B) pela ausência de movimentos respiratórios (apneia) ou respiração agônica (gasping).
(C) miose completa em menos de três minutos.
(D) pela ausência de pulso periférico (carotídeo, femoral).
(E) hipertonia.

03. Um paciente internado na Unidade Hospitalar de Dermatologia precisa receber um frasco de soro fisiológico a 0,9% de 400 ml em 6 horas. O técnico de enfermagem preparou o soro e realizou o cálculo para o gotejamento da solução. Assinale a alternativa correta:

a) O gotejamento do soro, em macrogotas, é de 44 gotas/minuto; e, em microgotas, é de 15 microgotas/minuto.
b) O gotejamento do soro, em macrogotas, é de 67 gotas/minuto; e, em microgotas, é de 22 microgotas/minuto.
c) O gotejamento do soro, em macrogotas, é de 22 gotas/minuto; e, em microgotas, é de 67 microgotas/minuto.
d) O gotejamento do soro, em macrogotas, é de 22 gotas/minuto; e, em microgotas, é de 7 microgotas/minuto.
e) O gotejamento do soro, em macrogotas, é de 20 gotas/minuto; e, em microgotas, é de 9 microgotas/minuto.

04. Ao realizar visita domiciliar a uma puérpera no oitavo dia pós-parto, a técnica de enfermagem necessitou intensificar as orientações sobre a amamentação considerando que a prática utilizada pela mãe estava incorreta, pois:

I. as bochechas do recém-nascido se apresentavam encovadas a cada sucção;
II. a nutriz relatava dor ao amamentar;
III. a criança apresentava evacuações semilíquidas, amarelas.

Constituem sinais de uso de técnica incorreta de amamentação o apresentado em :

A) II, apenas.
B) III, apenas.
C) I e II, apenas.
D) I e III, apenas.
E) I, II e III.

05. A Portaria n.º 104 do Ministério da Saúde (25.01.2011) que, entre outros itens, define a relação de doenças e agravos de notificação compulsória, determina serem de notificação compulsória imediata (LNCI), por telefone, os casos suspeitos ou confirmados de:

A) hanseníase, tuberculose e raiva humana.
B) esquistossomose, febre tifoide e hepatites virais.
C) botulismo, cólera e óbito por dengue.
D) difteria, dengue e efeitos adversos pós-vacinação.
E) coqueluche, sarampo e malária.

06. O processo capaz de eliminar muitos ou todos os micro-organismos patogênicos, inclusive esporos, é denominado:

A) esterilização.
B) desinfecção.
C) assepsia.
D) antissepsia.
E) degermação.

07. . Segundo o Ministério da Saúde determina, pessoas institucionalizadas, acima dos 60 anos, devem receber a vacina
A) contra influenza sazonal, com reforço a cada cinco anos.
B) contra febre amarela, com reforço a cada cinco anos.
C) pneumocócica, com reforço após cinco anos da primeira dose.
D) contra difteria, com reforço a cada cinco anos.
E) dupla tipo adulto, com reforço a cada cinco anos.

08. Assinale a alternativa correta com relação às Doenças Sexualmente Transmissíveis – DSTs.

A) O HIV é transmitido através das vias sexual e sanguíneas, de transmissão vertical, dos objetos perfuro-cortantes contaminados e da amamentação.
B) A sífilis congênita é transmitida da mãe ao feto durante o último trimestre da gravidez.
C) A sífilis, a gonorreia, o herpes e a AIDS são DSTs que podem ser transmitidas durante a gravidez, mas raramente por meio do parto.
D) A pílula anticoncepcional minimizou o surgimento das DSTs.
E) A partir da contaminação com o micro-organismo de determinada DST, o indivíduo passa a ser imune a essa mesma DST.

09. A destruição das hemácias que ocorre quando há incompatibilidade sanguínea entre o fator Rh da mãe e o do feto é denominada de

A) eclâmpsia.
B) anemia do recém-nascido.
C) púrpura trombocitopênica.
D) eritroblastose fetal.
E) toxemia gravídica

10. As ações e serviços públicos de saúde integram uma rede regionalizada e hierarquizada, e constituem um sistema único e organizado de acordo com as diretrizes do SUS, sendo elas:

A) descentralização, consulta e participação popular.
B) descentralização, atendimento integral e participação popular.
C) universalização, participação popular, atendimento integral.
D) equidade, igualdade e fraternidade.
E) participação popular, equidade, universalidade

INFORMÁTICA

1)

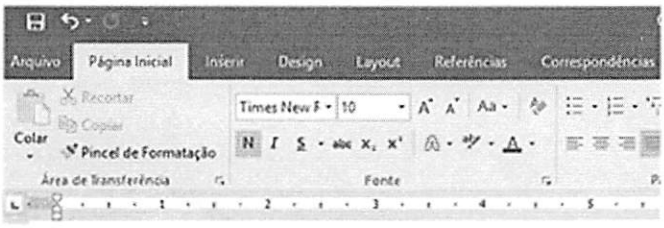

A imagem apresentada mostra parte da barra de ferramentas do Word em um arquivo em edição. Se o usuário pretende alterar a orientação do texto de "retrato" para "paisagem", ele consegue fazer isso ao clicar com o *mouse* sobre a guia
(a) Inserir.
(b) Design.
(c) Layout.
(d)Referências.
(e)Correspondências

2)

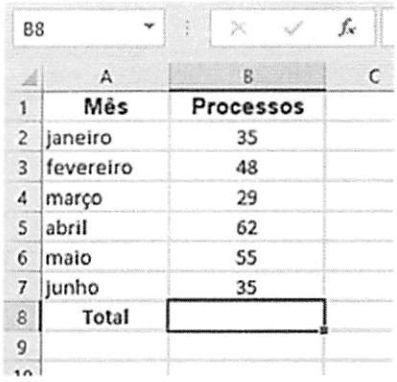

	A	B	C
1	Mês	Processos	
2	janeiro	35	
3	fevereiro	48	
4	março	29	
5	abril	62	
6	maio	55	
7	junho	35	
8	Total		
9			

A imagem apresentada mostra o preenchimento de uma planilha no Excel. Se o usuário pretende que o valor da soma dos processos apareça na célula B8, uma maneira de ele obter o valor correto, nessa célula, seria com a seguinte fórmula:
(a) =SOMA(A2:B7)
(b) =MEDIA(B2:B7)
(c) =SOMA(B2+B7)
(d) =SOMA(B2;B7)
(e) =MEDIA(B2;B7)

3)

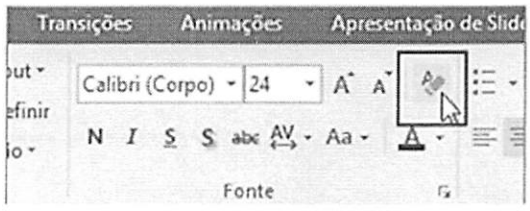

A imagem apresentada mostra parte da barra de ferramentas do PowerPoint. O botão indicado pela seta tem a função de
(a) limpar toda a formatação.
(b) formatar a fonte.
(c) apagar todo o texto.
(d) copiar a formatação.
(e) alterar o tamanho da fonte.

4) Um usuário de um computador digitou o seguinte endereço na Barra de endereços do navegador Internet Explorer:

https://www.google.com.br

Com relação ao endereço digitado, é correto afirmar que
(a)é um *site* de uma organização sem fins lucrativos.
(b)a troca de dados entre o navegador e o servidor do *site* é criptografada.
(c) é um *site* de uma organização não governamental.
(d) o *site* visitado é seguro, ou seja, livre de vírus e outros códigos maliciosos.
(e) é um *site* de uma organização governamental.

5) "Os leitores dos jornais continuam a diminuir, mais de 78 milhões de pessoas recebem suas notícias on-line. Cerca de 39 milhões de pessoas assistem a um vídeo online todos os dias e 66 milhões leram um blog. Ocorrem 16 milhões de postagem em blogs, criando uma explosão de novos escritores e novas formas de feedback dos clientes que não existiam há 10 anos atrás. O site de redes sociais Facebook atrai 134 milhões mensalmente e mais de 500 milhões em todo o mundo. Empresas estão começando a usar ferramentas de rede social para conectar seus funcionários, clientes e gerentes em todo o mundo. Muitas empresas que frequentam o Fortune 500 agora têm Páginas do Facebook."

A partir das ideias expressas no texto acima, conclui-se que:
(a)A troca contínua de tecnologias digitais aumentou o número de certificações digitais.
(b)Os sistemas de informações estão transformando negócios.
(c)As videoconferências fazem parte incontestavelmente do cotidiano.
(d)As leis de segurança requerem o armazenamento de documentos on-line por 5 anos.
(e) NDA

LÍNGUA PORTUGUESA

1) Leia o poema de Oswald de Andrade:
Pronominais
Dê-me um cigarro
Diz a gramática
Do professor e do aluno
E do mulato sabido.
Mas o bom negro e o bom branco
Da Nação Brasileira
Dizem todos os dias
Deixa disso camarada
Me dá um cigarro.
Considere as seguintes afirmações sobre o poema e assinale a alternativa correta.
I – No texto, encontramos exemplos do Português tanto no seu uso padrão quanto no seu uso coloquial.
II – O uso do Português padrão no primeiro verso, em contraste com a linguagem coloquial no último, insinua a superioridade daquele sobre este.
III – A coexistência da norma culta com a linguagem coloquial indica a diversidade dos usos do Português no Brasil.
(A) apenas a afirmação I está correta.
(B) apenas a afirmação II está correta.
(C) apenas a afirmação III está correta.
(D) estão corretas as afirmações I e II.
(E) estão corretas as afirmações I e III.

2) Dentre as seguintes opções, indique aquela que contenha somente termos de origem tupi.
(A) buquê – índio – taquara
(B) arara – quiabo – micróbio
(C) arar – futebol – fubá
(D) xampu – macumba – saci
(E) mandioca – cipó – peroba

3) Considerando que alguns nomes de lugar admitem a anteposição do artigo, assinale a alternativa em que a crase foi empregada corretamente.
(A) Ele nunca foi à Berlim.
(B) Ele nunca foi à Paris.
(C) Ele nunca foi à Portugal.
(D) Ele nunca foi à Roma.
(E) Ele nunca foi à China.

4) Na frase "_____ as aparências enganosas de gratidão." Preenche-se corretamente a lacuna por:
(A) Devem ser evitado
(B) Devem ser evitadas
(C) Deve ser evitado
(D) Deve serem evitadas
(E) Deve ser evi0tadas

5) Em *"A grande maioria das marcas que encontramos à venda é gaseificada, em processo industrial idêntico ao dos refrigerantes: retira-se o oxigênio presente no líquido e injeta-se, em seu lugar, gás carbônico."*, o uso de dois-pontos indica:
(A) esclarecimento
(B) enumeração
(C) surpresa
(D) reflexão
(E) citação

MATEMÁTICA E RACIOCÍNIO LÓGICO

1. No alto de uma árvore de Natal colocada em uma praça de uma determinada cidade duas luzes "piscam" com frequências diferentes. A primeira, "pisca" 12 vezes por minuto e a segunda, "pisca" 15 vezes por minuto. Se num certo momento as luzes piscam simultaneamente, após quantos segundos elas voltarão a piscar simultaneamente?
a) 10 segundos.
b) 20 segundos.
c) 15 segundos.

d) 40 segundos.
e) 30 segundos.

2. Considere um dado convencional. Lançando-se esse dado, qual é probabilidade de sair um número ímpar na face voltada para cima.
a) 10 %
b) 20 %
c) 15 %
d) 50 %
e) 30 %

3. No consultório médico há uma sala de espera para os pacientes que aguardam atendimento. Nela há cinco cadeiras dispostas em linha, lado a lado, e numeradas de 1 a 5. Observe a representação abaixo:

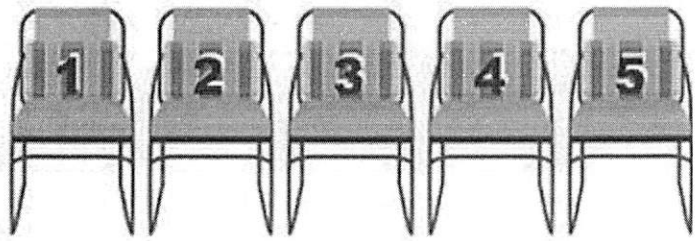

Quatro pessoas estão aguardando atendimento e vão ocupar quatro dessas cadeiras. As possíveis ocupações das cadeiras distinguem-se não só pela cadeira vazia, mas, também, pela disposição das pessoas nas cadeiras ocupadas. De quantos modos as cadeiras podem ser ocupadas pelas quatro pessoas?
A 5 modos
B 20 modos
C 120 modos
D 24 modos
E 1024 modos

4. Uma fábrica de doces produz 100 pirulitos a cada quatro horas. Sabendo que ela fica aberta durante 16 horas por dia, quantos pirulitos produz durante um dia?
A 200 pirulitos
B 300 pirulitos
C 400 pirulitos
D 500 pirulitos
E 600 pirulitos
5. O Senhor Antonio investiu R$ 1.000,00 a juros simples de 3% ao mês. O valor que ele receberá após um ano será:
A R$ 1500,00
B R$ 1200,00
C R$ 1460,00
D R$ 1600,00
E R$ 1360,00